104 Les nombres de 80 à 89

OBJECTIF : aborder la structuration des nombres de 80 à 89.

CALCUL MENTAL

Faire ajouter un nombre ≤ 5 à un nombre à deux chiffres sans changer de dizaine. Ex : 22 + 3
Écrire la somme. (Travail par deux.)

1 Le jardinier compte les fleurs. Il y a 4 barquettes de 20 fleurs.
Complète les additions.





20 + 20 + 20 + 20 = ...

10 + 10 + 10 + 10 + 10 + 10 + 10 + 10 = ...

• **Complète** la bande numérique et **lis** les nombres.

75	76	77	.....	.....	80	.....	.....	.....	.....	.....	.....	.....	.....	.....	90

2 Calcule.

80 + 5 = ...	2 + 80 = ...
80 + 7 = ...	4 + 80 = ...

3 Calcule.

85 – 5 = ...	87 – 80 = ...
84 – 1 = ...	84 – 10 = ...

4 **Écris** les nombres au bon endroit.



Écris les nombres en lettres.

quatre vingt un neuf

81 .....

89 .....