Prénom :
Date :

Les doubles jusqu'à 5

Calcul

1. Dessine le double de chaque quantité :

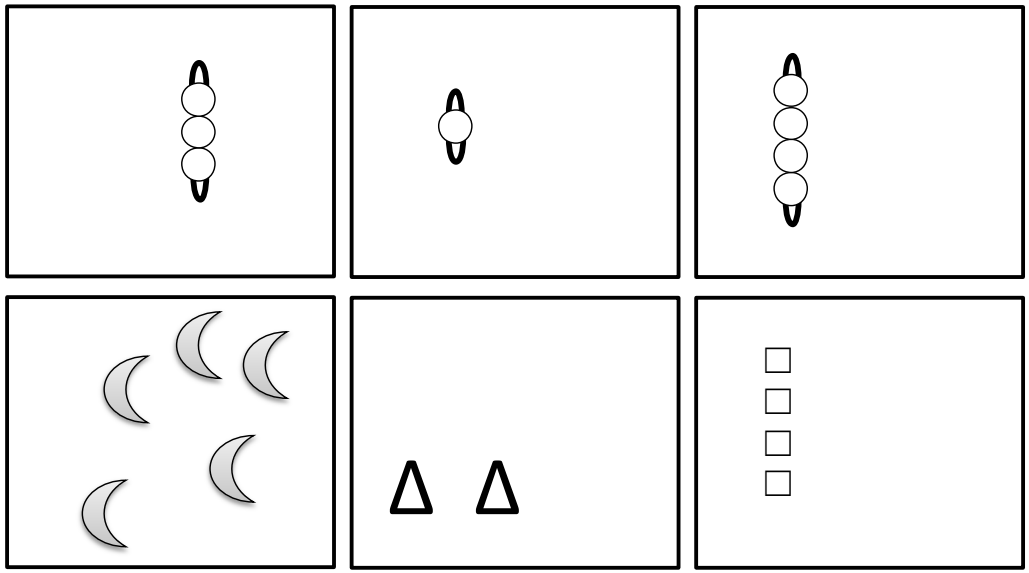

2. Dessine le double et **écris** l'écriture mathématique :

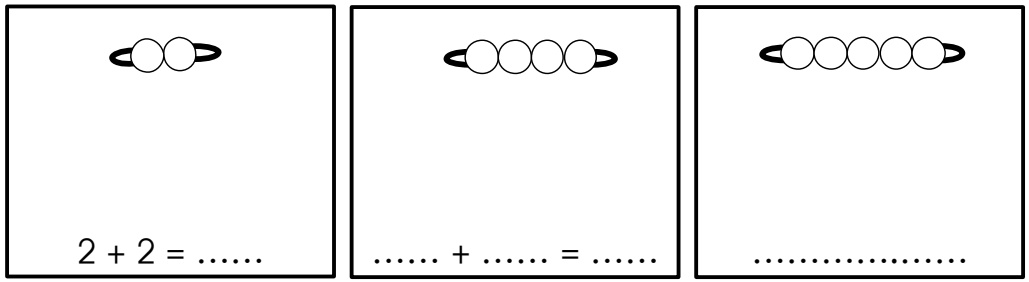

2 + 2 = ...

..... + ... = ...

.....

3. Complète :

4 + 4 = ... 3 + 3 = ... 2 + 2 = ...

1 + 1 = ... 5 + 5 = ...

Le double de 3 est ..... Le double de 4 est .....

Prénom :
Date :

Les doubles jusqu'à 10

Calcul

1. Dessine le double de chaque quantité :

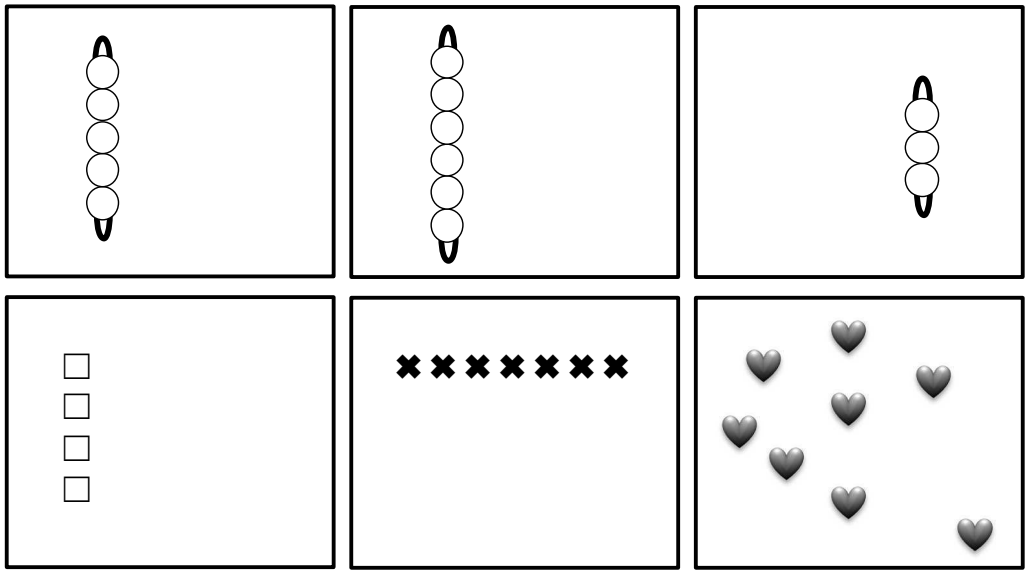

2. Dessine le double et **écris** l'écriture mathématique :

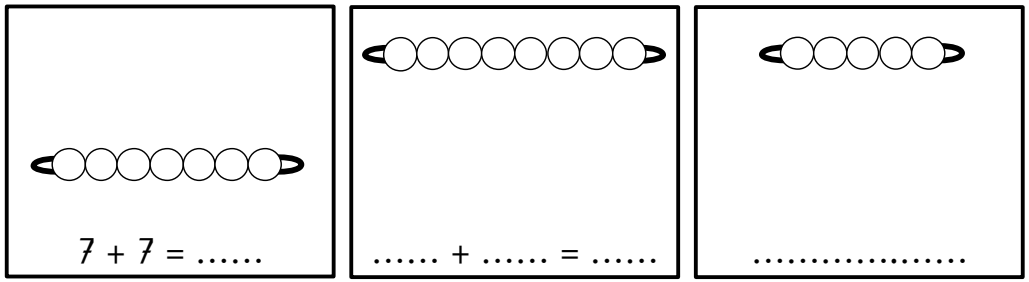

7 + 7 = ...

..... + ... = ...

.....

3. Calcule :

4 + 4 = ... 6 + 6 = ... 2 + 2 = ...

1 + 1 = ... 3 + 3 = ... 7 + 7 = ...

9 + 9 = ... 5 + 5 = ... 8 + 8 = ...