Plan de travail pour les CE1

Mardi 16.06.2020

1) Mathématiques

a) Calcul mental

- Ajouter 10 :

60+10= 71+10= 67+10 = 38+10= 84+10=

- Enlever 10 :

93-10 = 67-10= 83-10= 77-10= 71-10=

- Ajouter 20 :

70+20 = 74+20= 69+20= 51+20= 77+20=

- Enlever 20 :

30-20= 35-20= 95-20= 28-20= 97-20=

b) Additions posées

Exercice 7 p 77 a,b,c et d

c) Découvrir la multiplication p. 89

- Exercices 4, 5 et 6

Exercice 4 à faire sur ce quadrillage.





d) Grandeurs et mesures

Les deux pages d'exercices sur les longueurs.

e) Espace et géométrie Tracer les cercles aux compas

Continue (ou commence) le travail en art-plastique avec les cercles (voir le dossier d'art plastique)

Mesure : Unité de longueur

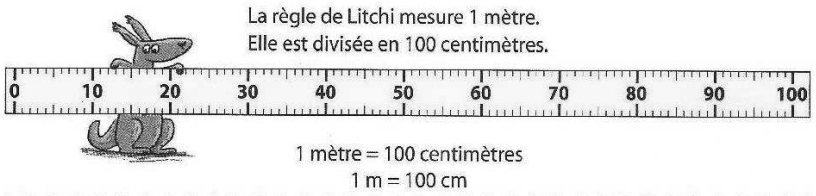

1 Quelle distance chaque escargot doit-il encore parcourir pour faire 1 mètre ?



L'escargot doit encore parcourir ..... cm.



L'escargot.....

2 **Calcule** le nombre total de centimètres que le scarabée a parcourus :



1 m et 50 cm → ..... cm et 50 cm → ..... + 50 = ... → ..... cm

Le scarabée a parcouru..... .

Calcule les mesures en centimètres.

1 m et 35 cm → ..... cm et ..... cm → ..... + ... = ... → ..... cm

1 m et 63 cm → ..... cm et ..... cm → ..... + ... = ... → ..... cm

Mesure : Unité de longueur

1 **Complète** les phrases avec m ou cm.

Un grand pas d'adulte mesure 1 …….. .

La tour Eiffel mesure un peu plus de 300 ……. .



La hauteur d'un livre est d'environ 30 …….. .

Un crocodile mesure 4 …….. .

Un crayon mesure 15 …….. .

En sport, Alban vient de sauter 120 …….. .



Un terrain de handball mesure 40 …….. de long.



Une guêpe mesure 2 …….. .

Certains joueurs de basket-ball mesurent plus de 2 ……. .

La taille de l'œil d'un éléphant est d'environ 8 …….. .

2 **a) Ecris** la taille des enfants en m et cm.

118 cm = 100 cm + 18 cm
118 cm = 1 m 18 cm

126 cm = ……

……

130 cm = ……

……

117 cm = ……

……

b) Ecris la longueur en cm.

7 m 32 cm = 700 cm + …… cm

7 m 32 cm = ……

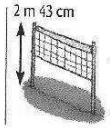

……

……

3 **Entoure** le nom des oiseaux qui mesurent plus d'un mètre lorsqu'ils ouvrent leurs ailes.

a Aigle royal : 220 cm

b Chouette hulotte : 101 cm

c Martin-pêcheur d'Europe : 26 cm

d Canard colvert : 98 cm

e Cigogne blanche : 2 m

f Faucon pèlerin : 110 cm

2) Français

a) Lecture

Lire la bande dessinée p86.

- Je comprends 1 à 5 dans le cahier du jour.
- J'améliore ma lecture 2 et 3
- Vocabulaire 2

b) Lexique

p. 89 : les différents sens d'un mot.
Je m'entraine 1, 2, 3

c) Production d'écrit

Dans l'objectif d'écrire une bande dessinée, je vous propose cet exercice : une bande dessinée avec des bulles vides et le texte des bulles en dessous. A vous de mettre le bon texte dans les bonnes bulles.

d) Révisions

Faire les exercices 5 à 8 p. 94

En bonus : mots mêlés musique