Compétences :
- Utiliser des instrument (équerre, gabarits) pour vérifier qu'un angle est droit ou réaliser des tracés,
- Percevoir et reconnaître quelques relations et propriétés géométriques (angles droits),
- Utiliser en situation le vocabulaire (sommet, angle, côté).

Equerre et angle droit

Date : Le ____ / ____ / ____

1. Cherchons ensemble :

• **Déchire** un morceau de papier.
Fabrique une équerre en suivant les indications ci-dessous.

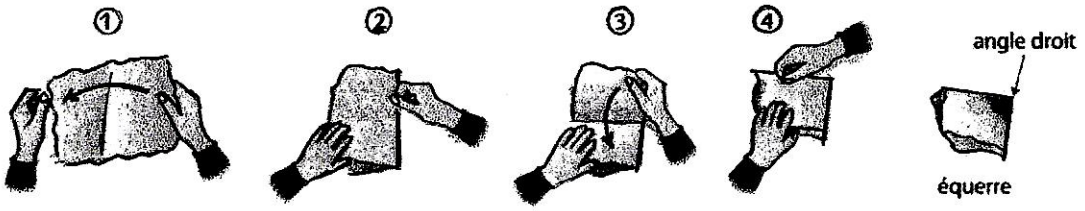

• Avec cette équerre, **retrouve** les angles droits de ces figures. **Colorie**-les.

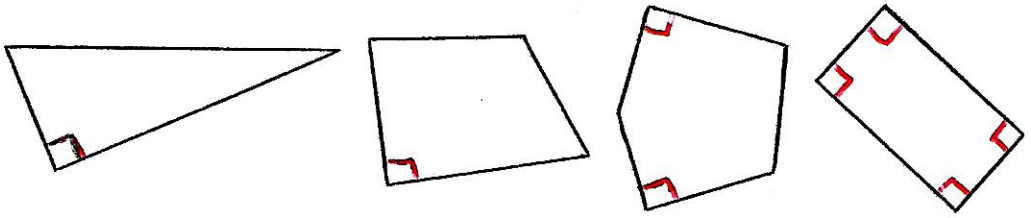

• L'équerre de ta trousse a la forme d'un triangle rectangle.
Utilise l'équerre en papier pour repérer l'angle droit de l'équerre de ta trousse.
Colle une gommette dessus.

2. Colorie la gommette qui est collée sur l'angle droit de chaque équerre :



3. Parmi les angles proposés ci-dessous, colorie :

- en rouge les angles droits,
- en bleu les angles aigus (plus petits qu'un angle droit),
- en vert les angles obtus (plus grands qu'un angle droit)

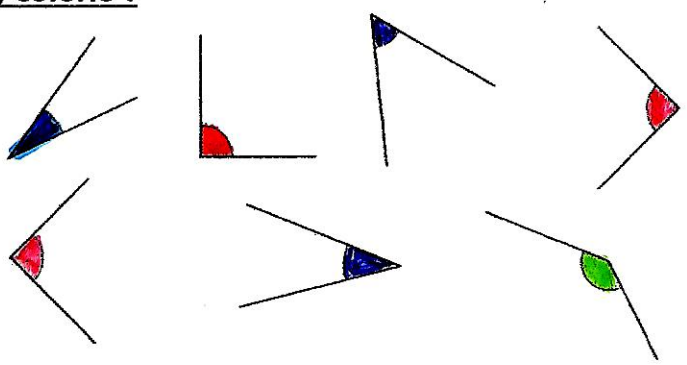
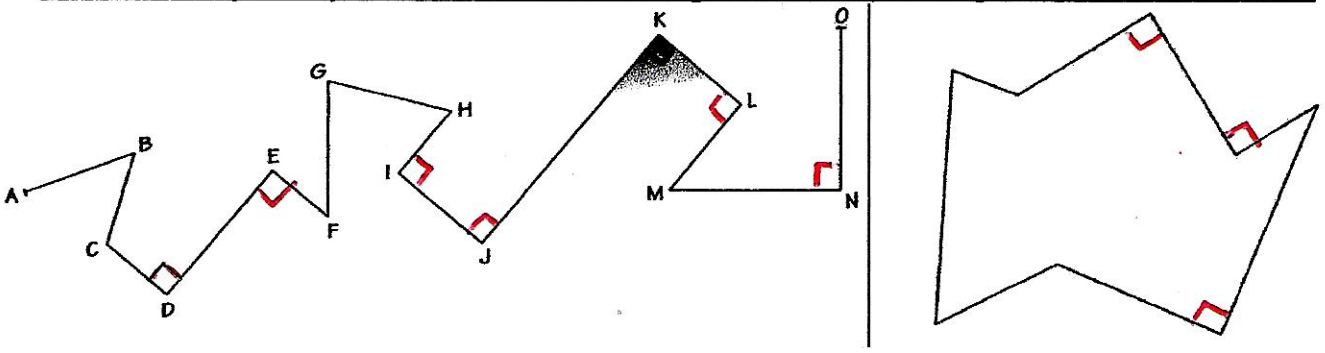
4. Utilise ton équerre pour trouver tous les angles droits de ces figures et code-les ainsi